الجمهورية الجزائرية الديمقراطية الشعبية

وزارة التربية الوطنية

الديوان الوطني للامتحانات والمسابقات

امتحان بكالوريا التعليم الثانوي

دورة: 2021

الشعبة: آداب وفلسفة

اختبار في مادة: التاريخ والجغرافيا

المدة: 04 سا و30 د

على المترشح أن يختار أحد الموضوعين الآتيين:

الموضوع الأول

يحتوي الموضوع الأول على (02) صفحات (من الصفحة 1 من 5 إلى الصفحة 2 من 5)

التاريخ:

الجزء الأول: (06 نقاط)

1) "... إنّ التّزييف الذي وقع في انتخابات 1947... جعل **حركة الانتصار للحريات الديمقراطية** تُدْرِكُ بأنّها أخطأت التّقدير... وبفضل النّقد الشّديد الموجّه لها من عناصرها الأكثر صلابة، استيقظت وأسّست **المنظّمة الخاصة**، وعندما وقعت أزمة الحركة سنة 1953 وتكرّس الانقسام بعد ذلك بحوالي عام، ظهرت نزعة ثالثة وأسّست **اللجنة الثّورية للوحدة والعمل** والتي حدّدت لنفسها هدفا يتمثّل في تحقيق الصلح بين الطرفين المتخاصمين...". **المرجع: د. محمد العربي الزبيري، الثورة الجزائرية في عامها الأول. طبعة 1984 ص 151 – 152.**

المطلوب: اشرح ما تحته خطّ في النّص.

2) عرّف بالشخصيات التّالية:

– فرحات عباس **– جوزيف بروز تيتو** **– أندري جدانوف**

3) أكمل الجدول التّالي:

الحدث	تاريخه
	11 ديسمبر 1960
تأسيس منظمة الكوميكون	
	06/01 سبتمبر 1961

الجزء الثاني: (04 نقاط)

تميّزت العلاقات الدولية بعد نهاية الحرب الباردة بظهور نظام دولي جديد، يقوم على مجموعة من المؤسسات، من أهمها الاقتصادية والعسكرية.

المطلوب: انطلاقا من العبارة واعتمادا على ما درست، اكتب مقالا تاريخيا تبيّن فيه:

1) أسباب ظهور النظام الدولي الجديد.

2) مؤسساته الاقتصادية والعسكرية.

الجغرافيا:

الجزء الأول: (06 نقاط)

1) "... أثبتت تجربة رابطة دول جنوب شرق آسيا (**الآسيان**) قدرة الدول الأعضاء على العمل المنظّم... التي تهدف من ورائه إلى بناء اقتصاد قوي يرتكز على تشجيع الصادرات وزيادة **التبادل التجاري** بين دول المنطقة... ولم يبق تكتلا مغلقا... بل أصبح قاعدة تنافسية موجهة لخدمة السوق العالمية،... كما نجح هذا **التكتل** في رفع اقتصاديات الدول الأعضاء إلى صفوف الدول المصنّعة حديثا...".

المرجع: رابطة دول جنوب شرق آسيا(A.S.E.A.N).د/ خالفي علي. د/ رميدي عبد الوهاب. صفحة: 92/91.

المطلوب: اشرح ما تحته خطّ في النّص.

2) إليك جدولا يمثّل تطور أسعار البترول من عام 2010 إلى عام 2018.

السنة	2010	2011	2012	2013	2014	2015	2016	2017	2018
السعر بالدولار	77.5	107.5	109.5	105.9	96.3	49.5	40.8	52.4	71.2

المرجع: آفاق الاقتصاديات العربية. نشرة ضمان الاستثمار. العدد: 04 صفحة: 08 عام: 2019.

المطلوب:

أ) مثّل المعطيات الإحصائية الواردة في الجدول بمنحنى بياني.

– بمقياس: 1 سم = 10 دولار. 1 سم = سنة.

ب) علّق على الرسم البياني.

الجزء الثاني: (04 نقاط)

للوسط الطبيعي الدور الأكبر في جعل الولايات المتحدة الأمريكية أهم قطب اقتصادي عالمي، يؤثّر بشكل كبير في العلاقات الاقتصادية العالمية.

المطلوب: انطلاقا من العبارة واعتمادا على ما درست، اكتب مقالا جغرافيا تبيّن فيه:

1) دور الوسط الطبيعي في جعل الولايات المتحدة الأمريكية أهم قطب اقتصادي عالمي.

2) أثر قوة الاقتصاد الأمريكي على العلاقات الاقتصادية العالمية.

انتهى الموضوع الأول

الموضوع الثاني

يحتوي الموضوع الثاني على (03) صفحات (من الصفحة 3 من 5 إلى الصفحة 5 من 5)

التاريخ:

الجزء الأول: (06 نقاط)

1) "... أدّت **الحـــرب البـــاردة** إلـى توسـيع نطـاق الخلافـات بـين الولايـات المتحـدة الأمريكيـة والاتحـاد السوفياتي...ولأنّ الاتحاد السوفياتي تولّد لديه الإحساس... بعد تبنّي الولايات المتحدة الأمريكية **لسياسة الاحتواء** بأنّه أصبح معزولا، وبأنّه لا يستطيع أن يدافع عن مصالحه عن طريق التّنسيق مع دول أخرى... سواء داخل **مجلس الأمن** أو داخل الجمعية العامة...".

المرجع: الأمم المتحدة في نصف قرن. د/ حسن نافعة. صفحة: 122. عالم المعرفة.

المطلوب: اشرح ما تحته خطّ في النّص.

2) عرّف بالشخصيات التّالية:

– محمد بوضياف **– جمال عبد الناصر** **– جورج مارشال**

3) أكمل الجدول التّالي:

الحدث	تاريخه
تأسيس حلف بغداد	
	1955/08/20
توحيد الألمانيتين	

الجزء الثاني: (04 نقاط)

كانت استراتيجية الثّورة التحريرية الكبرى في الجزائر بين (1955/1954) إنجاح انطلاقتها من جهة، وإفشال مخطّطات الاستعمار الفرنسي للقضاء عليها في المهد من جهة أخرى.

المطلوب: انطلاقا من العبارة واعتمادا على ما درست، اكتب مقالا تاريخيا تبيّن فيه:

1) استراتيجية تنفيذ الثّورة التحريرية الكبرى بين(1955/1954).

2) مخطّطات الاستعمار الفرنسي للقضاء عليها في نفس الفترة.

الجغرافيا:

الجزء الأول: (06 نقاط)

1) "... تسعى **منظمة التجارة العالمية** (O.M.C) إلى رفع مستوى المعيشة للدول الأعضاء والمساهمة في تحقيق التّنمية الاقتصادية لجميع **الدول النّامية** ... وتلك التي تمر بمرحلة انتقالية إلى **اقتصاد السوق**...".

المرجع: دراسات مركز الانتاج الاعلامي. جامعة الملك عبد العزيز. الإصدار 14 صفحة: 30.

المطلوب: اشرح ما تحته خطّ في النّص.

2) إليك جدولا يمثّل نسب المبادلات التجارية للاتحاد الأوروبي مع بعض الدول عام 2019.

البلدان / المبادلات	الولايات المتحدة الأمريكية	الصين	روسيا	اليابان	كوريا الجنوبية
الصادرات	% 18	% 9.3	% 4.1	% 2.9	% 2
الواردات	% 12	% 18.7	% 7.5	% 3.2	% 2.4

المرجع: موقع الاحصائيات الأوروبية "أوروستات" 28 /01/ 2021.

المطلوب:

أ) علّق على المعطيات الإحصائية الواردة في الجدول.

ب) على خريطة العالم المرفقة، وقّع الدول الواردة في الجدول.

الجزء الثاني: (04 نقاط)

يقاس تقدم الدول أو تخلفها بمجموعة من المعايير، وعالم اليوم ينقسم إلى عالمين، عالم الشّمال المتقدم، وعالم الجنوب المتخلف.

المطلوب: انطلاقا من العبارة واعتمادا على ما درست، اكتب مقالا جغرافيا تبيّن فيه:

1) عوامل تقدم عالم الشّمال.

2) معايير التّخلف الاجتماعية لعالم الجنوب.

خريطة العالم

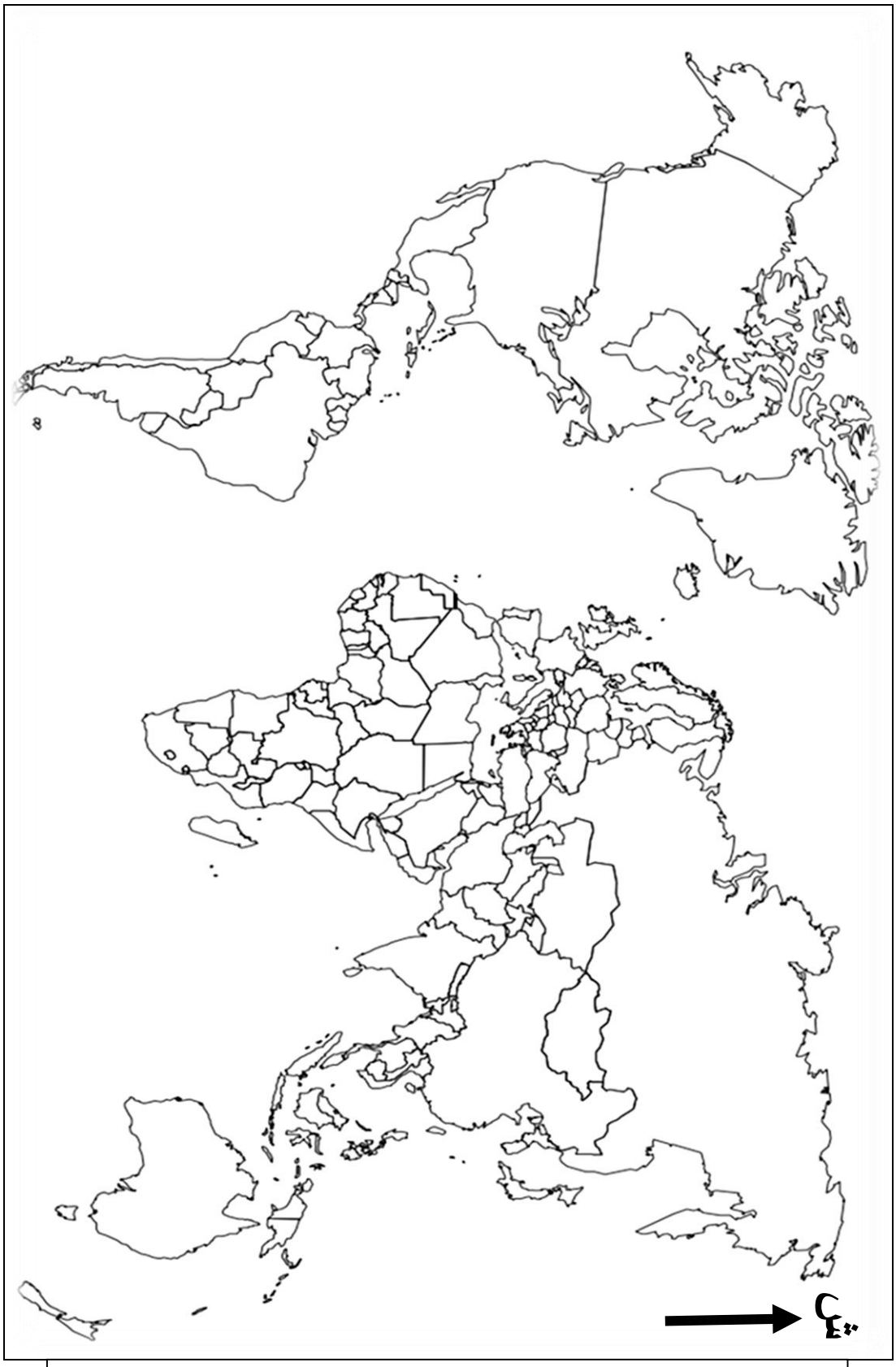

ينجز العمل المطلوب على الخريطة وتعاد مع أوراق الإجابة

انتهى الموضوع الثاني

عناصر الإجابة (الموضوع الأول)	العلامة مجزأة	العلامة مجموعة
التّاريخ		
الجزء الأول:		
1) شرح ما تحته خطّ في النّص:		
❖ **حركة الانتصار للحريات الدّيمقراطية:**(MTLD) تنظيم سياسي تأسس في02/11/ 1946 وهو امتداد لحزب الشّعب الجزائري، بقيادة مصالي الحاج، يمثّل الاتجاه الاستقلالي في الحركة الوطنية، عرف أزمة سياسية حادة عام 1953 أدّت إلى انقسام الحركة إلى مصاليين ومركزيين وكانت سببا في التّعجّيل باندلاع الثّورة التّحريرية في 1954/11/01...	0.50	
❖ **المنظّمة الخاصّة:** الجناح المسلح لحركة الانتصار للحريات الدّيمقراطية، تأسست في 1947/02/15 ترأسها محمد بلوزداد، هدفها التّحضير للثّورة المسلحة، ومن أهم أعضائها أحمد بن بله وحسين آيت أحمد، تمّ اكتشافها وحلها سنة 1950.	0.50	
❖ **اللّجنة الثّورية للوحدة والعمل:** تأسّست في 23 /1954/03 ضمت أعضاء من المنظّمة الخاصّة وبعض المركزيين بقيادة محمد بوضياف، هدفها توحيد الصّفوف لتجاوز الخلافات بين المصاليين والمركزيين والتّحضير لاندلاع الثّورة.	01	06
2) التّعريف بالشّخصيات التّالية:		
❖ **فرحات عباس:** سياسي جزائري، زعيم التّيار الادماجي، حرر بيان 1943... أسّس الاتحاد الدّيمقراطي للبيان الجزائري 1946، التّحق بصفوف الثّورة الجزائرية عام 1956، أول رئيس للحكومة المؤقتة للجمهورية الجزائرية عام 1958 ورئيس المجلس التّأسيسي عام 1962.	01	
❖ **جوزيف بروز تيتو:** رئيس يوغسلافيا(1980/1945) قائد المقاومة ضد دول المحور خلال المواجهة.ع.2، زعيم الحزب الشّيوعي، من مؤسسي حركة عدم الانحياز 1961.	0.50	
❖ **أندري جدانوف:** مسؤول الدّعاية والإعلام في الحزب الشّيوعي السّوفياتي، صاحب مبدأ جدا نوف ومؤسس مكتب الكومنفورم 1947.	0.50	
3) إكمال الجدول التّالي:		

الحدث	تاريخه	
مظاهرات شعبية في الجزائر	**1960/12/ 11**	01
تأسيس منظّمة الكوميكون	**1949/01/25**	0.50
انعقاد مؤتمر بلغراد (يوغسلافيا) وتأسيس حركة عدم الانحياز	**6/1 سبتمبر 1961**	0.50

(تقبل كلّ الاجابات الصّحيحة الاخرى)

الجزء الثّاني: **مقدمة:** تعريف النّظام الدّولي الجديد والمؤسسات التي يقوم عليها. **(تقبل كلّ مقدمة وظيفية)** **1) أسباب ظهور النّظام الدّولي الجديد:** ❖ نهاية الحرب الباردة (مؤتمر باريس 1990). ❖ تفكك الكتلة الشّرقية. ❖ زوال القطبية الثّنائية. ❖ زوال الاتحاد السّوفياتي وميلاد روسيا الفيدرالية وتراجع مكانته في المحافل الدولية. ❖ انهيار النّظام الاشتراكي في أوربا والعالم. ❖ القوة الاقتصادية والمالية للولايات المتحدة الأمريكية ودور الإعلام في تجسيد النظام الدولي الجديد 2) **مؤسساته الاقتصادية والعسكرية:** يقوم على: **أ) الاقتصادية:** تتمثّل في: ❖ صندوق النّقد الدّولي، البنك العالمي، منظّمة التّجارة العالمية، الشّركات متعددة الجنسيات، البورصات، البنوك... **ب) العسكرية:** تتمثّل في: ❖ حلف شمال الأطلسي. **خاتمة:** الهيمنة الأمريكية على مصير العالم. **(تقبل كلّ خاتمة وظيفية)**	**0.50** **0.25 × 6** **0.75** **0.75** **0.50**	**04**
الجغرافيا: **الجزء الأول:** **1) شرح ما تحته خط في النّص:** ❖ **الآسيان:** رابطة دول جنوب شرق آسيا، تكتل تأسس عام 1967 ضم تايلاندا، أندونيسيا، ماليزيا، سنغافورة، كانت أهدافه سياسية، وبعد نهاية الحرب الباردة توسعت عضويته لتشمل دول منطقة جنوب شرق آسيا، وتحول إلى تكتل اقتصادي يقوم على اقتصاد السّوق والتّبادل الحر والانفتاح.... ❖ **التّبادل التّجاري:** عملية تجارية تتمّ وفق شروط وقوانين، تقوم على التّصدير والاستيراد للسّلع والمنتجات والخدمات وغيرها وتتمّ بين دولتين أو أكثر.... ❖ **التّكتل:** توحيد للجهود والامكانيات بين دول شرق وجنوب شرق آسيا واستغلالها بطريقة مشتركة للرّفع من القدرات الانتاجية وتحقيق الرّفاهية للشعوب. **(تقبل كلّ الاجابات الصّحيحة الاخرى)**	**01** **0.50** **0.50**	

06	02 0.50 × 4 0.50 0.25 × 6 0.25 × 6 0.50	**2) رسم منحنى بياني لمعطيات احصائية تمثّل تطور أسعار البترول من عام 2010 إلى عام 2018.** ***العنوان: 0.25 * المفتاح: 0.25 *المقياس: 0.25 *الانجاز: 1.25** **3) التّعليق على الرسم البياني الذي يمثّل تطور أسعار البترول من عام 2010 إلى عام 2018:** ❖ عدم استقرار (تذبذب) أسعار البترول من 2010 إلى 2018. ❖ ارتفاع ملحوظ للأسعار من عام 2010 إلى عام 2012. ❖ تراجع الأسعار بشكل كبير من عام 2013 إلى عام 2016. ❖ تحسن الأسعار من عام 2017 إلى عام 2018. **الجزء الثّاني:** **مقدمة:** قوة اقتصاد الولايات المتحدة الأمريكية، وأثره على العلاقات الاقتصادية العالمية. **(تقبل كلّ مقدمة وظيفية)**
04		**1) دور الوسط الطّبيعي في جعل الولايات المتحدة الأمريكية أهم قطب اقتصادي عالمي:** ❖ اتساع المساحة حوالي 9.3 مليون كم². ❖ الانفتاح على واجهات بحرية (المحيط الأطلسي، الهادي، خليج المكسيك...) وطول سواحله. ❖ وفرة وتنوع الشّبكة المائية (أنهار وبحيرات...). ❖ وفرة وتنوع الثّروات الطّبيعية (معدنية، طاقوية، خشبية....). ❖ تنوع المناخ (المحيطي، الأطلسي، المتوسطي...). ❖ اتساع الأراضي الزراعية وتنوع التّربة وخصوبتها. **2) أثر قوة الاقتصاد الأمريكي على العلاقات الاقتصادية العالمية.** ❖ الهيمنة على الاقتصاد العالمي إنتاجا وتسويقا والتّحكم في العلاقات الاقتصادية العالمية. ❖ الهيمنة على المؤسسات المالية العالمية (صندوق النّقد الدّولي، البنك العالمي، البورصات، البنوك...). ❖ سيطرة الدّولار على المبادلات التّجارية في العالم. ❖ انتشار شركاتها متعددة الجنسيات في كل أنحاء العالم وهيمنتها على الاقتصاد العالمي. ❖ فرض عقوبات اقتصادية على الشّركات والدّول والأشخاص من خلال تجميد أرصدتهم. ❖ تأثر الاقتصاد العالمي بالأزمات التي يتعرض لها الاقتصاد الأمريكي. **خاتمة:** يبقى الاقتصاد الأمريكي أقوى اقتصاد في العالم. **(تقبل كلّ خاتمة وظيفية)** **(تقبل كلّ الاجابات الصّحيحة الاخرى)**

عناصر الإجابة (الموضوع الثّاني)	العلامة مجزأة	العلامة مجموعة
التّاريخ		
الجزء الأول:		
1) شرح ما تحته خطّ في النّص:		
❖ **الحرب الباردة:** صراع ايديولوجي، مذهبي... ظهر بعد المواجهة العسكرية الثّانية، بين الاتحاد السّوفياتي الاشتراكي والولايات المتحدة الأمريكية الرّأسمالية، استعملت فيه كل الوسائل ما عدا المواجهة العسكرية المباشرة بينهما وانتهت بتفكك الكتلة الشرقية وزوال الاتحاد السوفياتي...	01	
❖ **سياسة الاحتواء:** سياسة تبنتها الو.م.أ خلال الحرب الباردة، تقوم على إنشاء سلسلة من الأحلاف العسكرية، والقواعد العسكرية، والمساعدات، والمشاريع الاقتصادية، تهدف إلى كسب حلفاء وتطويق الاتحاد السّوفياتي، ومنع انتشار الشّيوعية ونفوذ الاتحاد السوفياتي في أوربا والعالم.	0.50	
❖ **مجلس الأمن:** أهم أجهزة الأمم المتحدة، يتكون من 15 عضو، 05 دائمون(الو.م.أ، فرنسا، بريطانيا، روسيا، الصّين) يتمتعون بحق الفيتو، و10 غير دائمين، من أهدافه صيانة السّلام والأمن الدّوليين وفقا لأهداف ومبادئ الأمم المتحدة...	0.50	06
2) التّعريف بالشّخصيات التّالية:		
❖ **محمد بوضياف:** مناضل جزائري، عضو في حزب حركة الانتصار للحريات الدّيمقراطية، والمنظّمة الخاصة، ترأس اللّجنة الثّورية للوحدة والعمل، عضو مجموعة 22 ومجموعة 6 ، ساهم في إعداد بيان 1954/11/01 وتفجير الثّورة، منسق بين عناصر الدّاخل والخارج، أُسر خلال القرصنة الجوية 1956 ، ترأس المجلس الأعلى للدولة 1992....	01	
❖ **جمال عبد النّاصر:** رئيس مصر (1970/1954) أحد أعضاء منظّمة الضباط الأحرار، شارك في ثورة 1952/07/23، أمم قناة السّويس 1956، دعم حركات التّحرر في العالم، حضر مؤتمر باندونغ، من مؤسسي حركة عدم الانحياز 1961.	0.50	
❖ **جورج مارشال:** جنرال وقائد أركان الجيش الأمريكي، عين وزيرا الخارجية عام 1945، اقترن اسمه بمشروع اقتصادي لإعادة إعمار أوربا بعد المواجهة العسكرية الثّانية (مشروع مارشال 1947).	0.50	
3) اكمال الجدول التّالي:		

الحدث	تاريخه
تأسيس حلف بغداد	1955/02/24
هجومات الشّمال القسنطيني	1955/08/20
توحيد الألمانيتين	1990/10/03

0.50	
01	
0.50	

(تقبل كلّ الاجابات الصّحيحة الاخرى)

الجزء الثّاني: **مقدمة:** الثّورة التّحريرية الكبرى في (1955/1954) بين استراتيجية تنفيذها ومخططات الاستعمار الفرنسي للقضاء عليها. **(تقبل كلّ مقدمة وظيفية)** **1) استراتيجية تنفيذ الثّورة التّحريرية الكبرى بين (1955/1954):** **أ) داخليا:** ❖ إصدار بيان نوفمبر 1954 للتعريف بالثّورة وتحديد وسائل الكفاح والأهداف وإنشاء(ج ت و) ❖ التّعبئة الشّعبية لحشد الشّعب عن طريق المناشير، الكتابات الحائطية... والعمل على إقناع المشككين والمترددين للالتّحاق بالثّورة. ❖ القيام بأكثر من 30 هجوم في 1954/11/01وهجومات الشّمال القسنطيني1955/08/20. **ب) خارجيا:** ❖ مشاركة وفد جبهة التّحرير الوطني في مؤتمر باندونغ 1955 وطرح القضية الجزائرية.... ❖ إدراج القضية الجزائرية في الدّورة العاشرة للأمم المتحدة عام 1955.... ❖ تشكيل وفد خارجي للتعريف بالقضية الجزائرية في المحافل الدّولية وإنشاء قسم التّنسيق بين الدّاخل والخارج عام 1955.... **1) مخططات الاستعمار الفرنسي للقضاء على الثّورة في نفس الفترة:** ❖ محاصرة كل المناطق خاصة منطقة الأوراس (المنطقة الأولى) ونشر الأكاذيب والادعاءات بأن الثّوار(فلاقة، خارجون على القانون)... ❖ الرّفع من عدد الجنود الفرنسيين في الجزائر. ❖ إعلان حالة الطّوارئ 1955/04/03، ، ❖ طرح مشروع جاك سوستال (الحاكم العام الفرنسي في الجزائر)1955/02/15. ❖ ارتكاب مجازر عديدة منها مجزرة ملعب سكيكدة 1955 وتطبيق مبدأ المسؤولية الجماعية. ❖ معارضة تدويل القضية الجزائرية في المحافل الدّولية. **خاتمة:** نجاح استراتيجية الثّورة التّحريرية أفشل مخططات الاستعمار الفرنسي. **(تقبل كلّ خاتمة وظيفية)**	0.50 0.25 × 3 0.25 × 3 0.25 × 6 0.50	04
الجغرافيا: **الجزء الأول:** **1) شرح ما تحته خطّ في النّص:** ❖ **منظّمة التّجارة العالمية:** منظّمة اقتصادية (تجارية) دولية تأسست في 1995 خلفا للاتفاقية العامة للتعرفة الجمركية (GATT)، تعمل على وضع القواعد والقوانين التي تنظم العلاقات التّجارية الدّولية، وتتولى حل النّزاعات التّجارية بين الدّول الأعضاء، مقرها جنيف سويسرا. ❖ **الدّول النّامية:** الدّول التي استقلت حديثا،(دول العالم الثّالث) وتعرف نموا اقتصاديا بطيئا، وتعاني من مشاكل عديدة، تتواجد معظمها في افريقيا، آسيا، أمريكا اللّاتينية. **(تقبل كلّ الاجابات الصّحيحة الاخرى)**	01 01	

❖ **اقتصاد السّوق:** نمط اقتصادي رأسمالي يقوم على حرية حركة رؤوس الأموال والمبادلات التّجارية والاستثمار بين الدّول يخضع لقانون المنافسة، (قانون العرض والطّلب).... **2) أ) التّعليق على المعطيات الإحصائية الواردة في الجدول التي تمثّل نسبة المبادلات التّجارية للاتحاد الأوربي مع بعض الدّول عام 2019:** ❖ تعدد مناطق التّبادل التّجاري للاتحاد الأوربي. ❖ تباين نسبة واردات وصادرات الاتحاد الأوربي مع الشّركاء التّجاريين. ❖ ارتفاع نسبة الصّادرات والواردات مع الولايات المتحدة الأمريكية. ❖ تحتل الصّين المرتبة الأولى في الواردات والثّانية في الصّادرات مع الاتحاد الأوربي. ❖ الميزان التجاري مع اسيا يعاني عجزا ويسجل فائضا مع الو م ا. ❖ ارتفاع نسبة واردات الاتحاد الأوربي على حساب الصّادرات مع مجموعة الدول الواردة في الجدول.	0.50 0.25 × 6	06
ب) التّوقيع على خريطة العالم التي تمثّل الدّول الواردة في الجدول (و.م.أ، الصين، روسيا، اليابان، كوريا الجنوبية) *العنوان: 0.25 * المفتاح: 0.50 *الانجاز: 0.25 لكل دولة. **الجزء الثّاني:** **مقدمة:** عوامل تقدم عالم الشّمال ومعايير تخلف عالم الجنوب. **(تقبل كلّ مقدمة وظيفية)** **1) عوامل تقدم عالم الشّمال:** ❖ **تاريخية وسياسية:** الاستعمار، الثّورة الصّناعية، الاستقرار السّياسي.... ❖ **طبيعية:** الموقع الجغرافي، تنوع الثّروات، الانفتاح، المناخ، وفرة السّهول.... ❖ **بشرية:** الوزن الدّيمغرافي(اليد العاملة المؤهلة واتساع السوق الاستهلاكية)، البحث العلمي.... ❖ **اقتصادية:** طبيعة النّظام الاقتصادي، رؤوس الأموال، المؤسسات المالية، البني التحتية	02 0.50 0.25 0.50 0.25 0.50	04
2) معايير التّخلف الاجتماعية لعالم الجنوب: ❖ انخفاض متوسط العمر : يتراوح العمر من 60 إلى 70 سنة. ❖ ضعف الدّخل الفردي، انخفاض القدرة الشّرائية، تدني المستوى المعيشي (سوء التّغذية، الأمراض والأوبئة والمجاعات). ❖ المستوى الصّحي: نقص الرّعاية الصّحية (طبيب واحد لكل 3000 نسمة...). ❖ المستوى العلمي: انتشار الأمية.... ❖ ضعف مؤشر التّنمية البشرية (IDH) إذ يقل عن 0.5 في معظم دول الجنوب. ❖ ارتفاع نسبة البطالة، تصل إلى 30 % في معظم دوله وانتشار الفوارق الاجتماعية (الطّبقية.)، والآفات الاجتماعية والاضطرابات....	0.25 × 6 0.50	

خاتمة: يمكن لعالم الجنوب استغلال امكانياته والاستفادة من تجربة عالم الشّمال.... **(تقبل كلّ خاتمة وظيفية)** **(تقبل كلّ الاجابات الصّحيحة الاخرى)**		

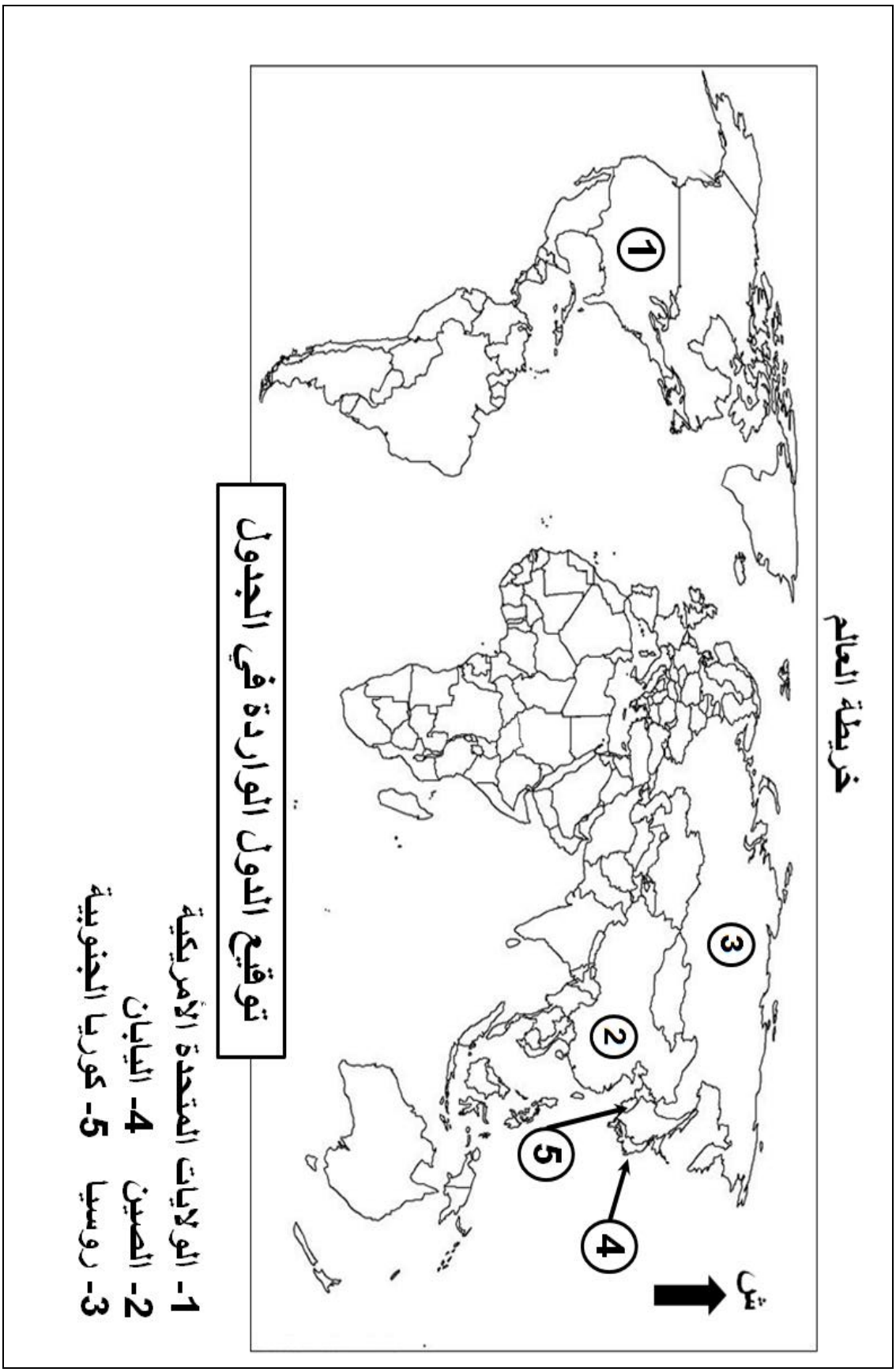
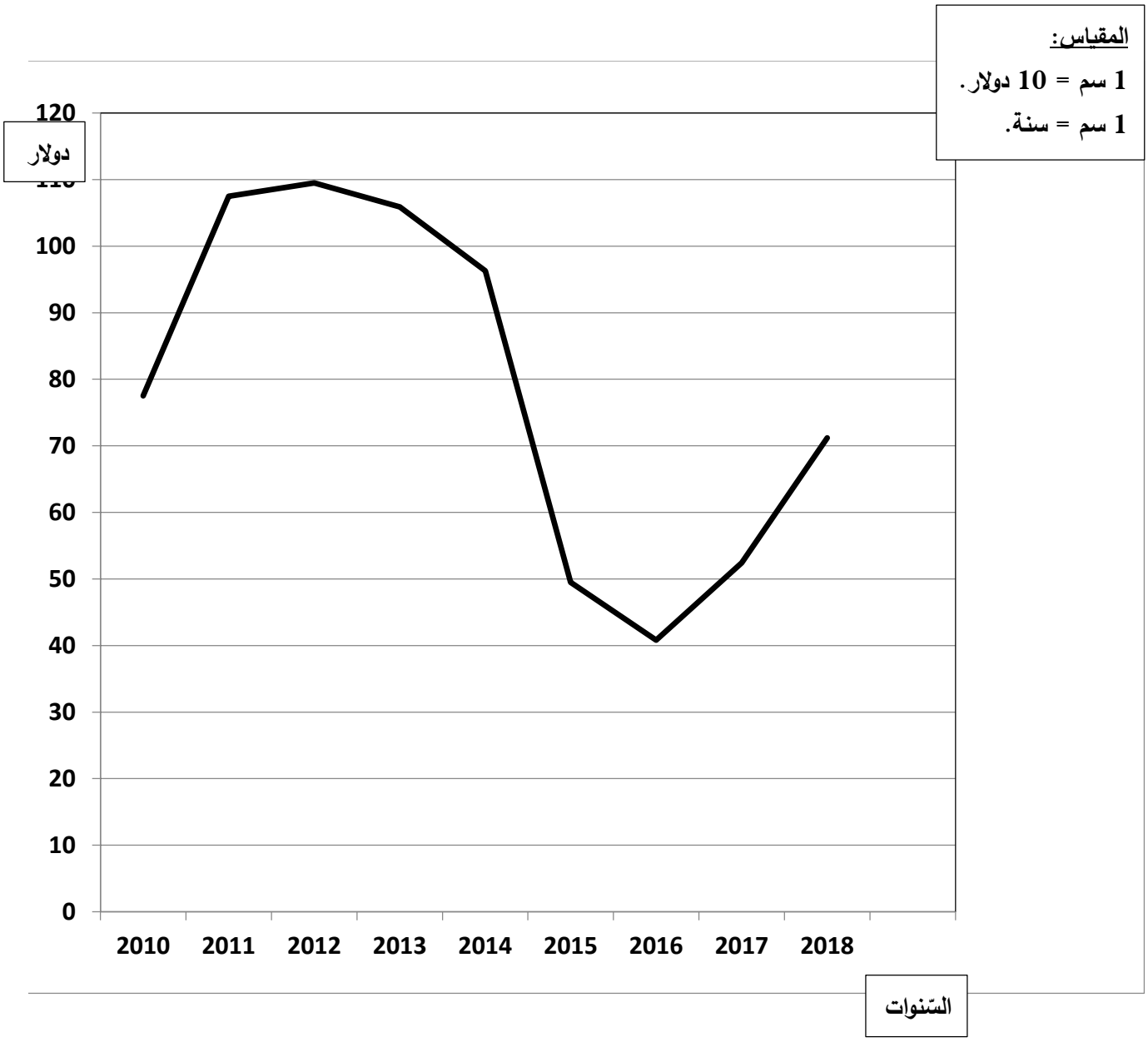
العنوان: منحنى بياني يمثّل تطور أسعار البترول في العالم من عام 2010 إلى عام 2018